## Úkol 6

Vyberte společně ve skupině dalších pět barev (barevné papíry), které byste chtěli prozkoumat – podle toho si vybarvěte i sklenice v pracovním listě. Pak nimi obalte sklenice, jako v Úkolu 4. Uspořádejte barevné sklenice (1 – 5) podle toho, které se podle vás budou ohřívat nejvíce (označte 5) a které nejméně (1). Své předpoklady zapište a následně ověřte.

| | Předpoklad | Ověření |
|---|---|---|
|  | | |
| | | |
| | | |
|  | | |
|  | | |

Zaznamenejte do tabulky stoupání teploty v každé sklenici. Měření opakujte a zaznamenejte po minutě. Za každý jeden dílek na teploměru (1 stupeň) vybarvěte jeden čtvereček. Každé měření zaznamenejte jinou barvou. Postupujte tak, dokud se teplota na teploměru neustálí:





**Porovnejte svá zjištění s předpoklady a pokuste se vytvořit závěr svého zkoumání:**