Úkol 5

Popřemýšlejte ve skupině, která nádoba (bílá nebo černá) bude rychleji ztrácet teplotu. Do tabulky zapište při nádobách pořadí, v jakém podle vás vychladnou. Pokud si myslíte, že budou chladnout stejně, zapište u obou nádob číslo 1.

	Předpoklad	Ověření
		

Zaznamenejte do tabulky pokles teploty u bílé a černé nádoby každé 2 minuty. Za každý jeden dílek na teploměru (1 stupeň) vybarvěte jeden čtvereček. Každé měření zaznamenejte jinou barvou. Postupujte tak, dokud se teplota na teploměru neustálí:





Pokuste se vytvořit závěr ze svého zkoumání: